Тест по заданиям ЕГЭ

Тема: Водоросли · тестовая часть

3 задания · максимум баллов: 4 · ответы в конце · решать онлайн: kursteam.ru/zadaniya/test

Часть 1

Ответом к заданиям 1–3 является последовательность цифр, число или слово (словосочетание). Ответы запишите в поля ответов в тексте работы.

1

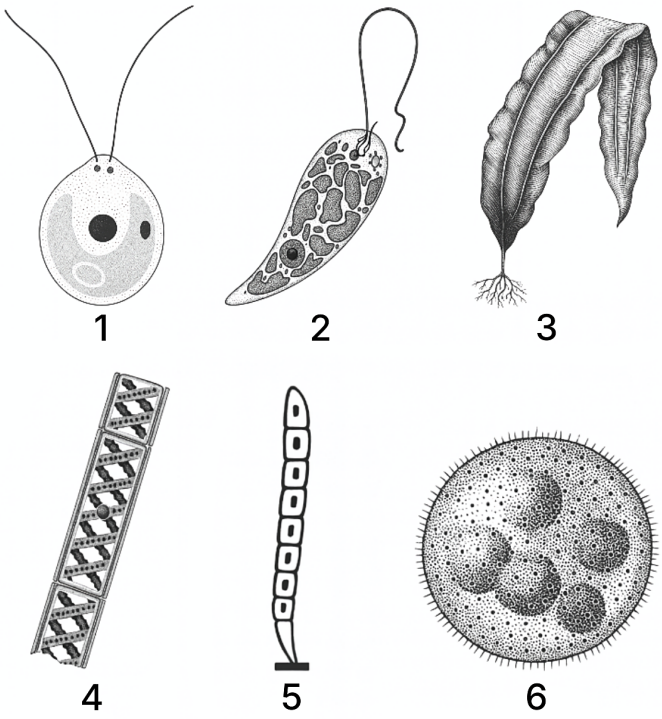

Какой цифрой на рисунках обозначен организм, имеющий колониальное строение?

Ответ: _____

2

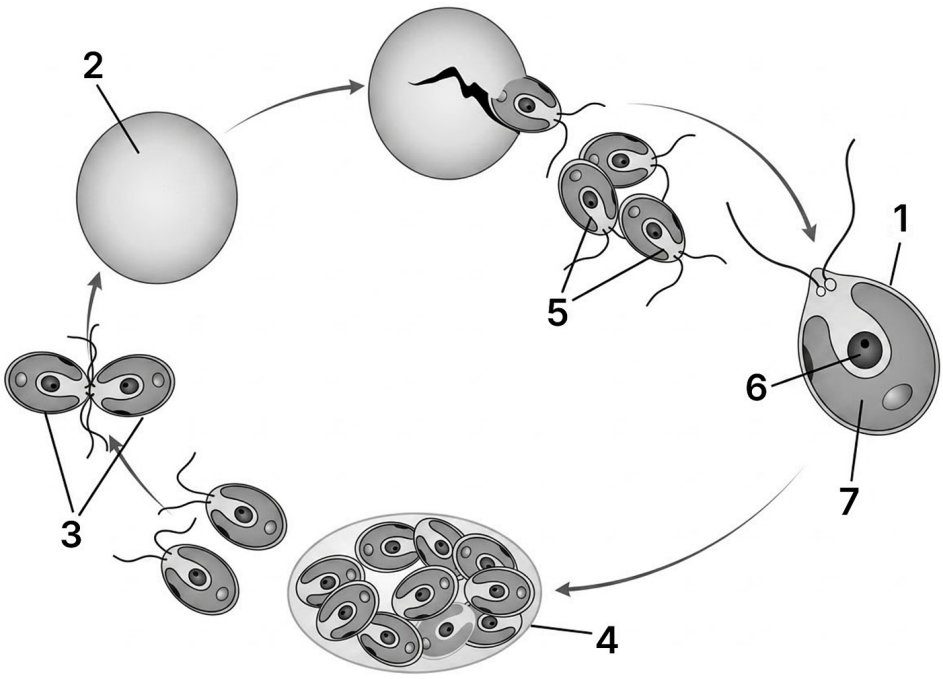

Каким номером на рисунке обозначена пластида?

Ответ: _____

3

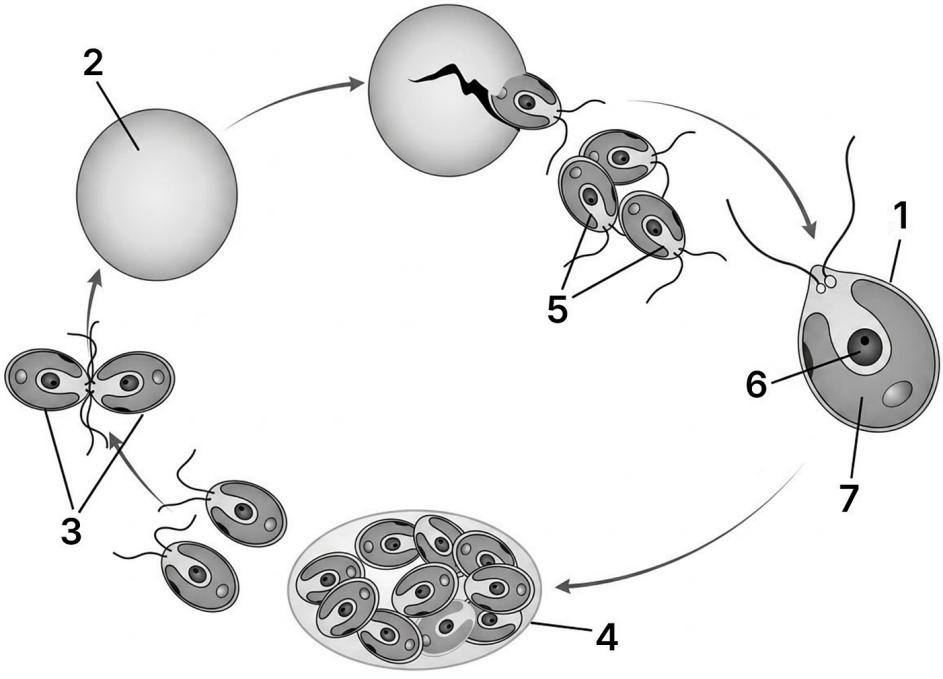

Установите соответствие между характеристиками и поколениями, отмеченными на рисунке цифрами 1 и 2: к каждой позиции, данной в первом столбце, подберите соответствующую позицию из второго столбца.

ХАРАКТЕРИСТИКИ	ПОКОЛЕНИЯ
А) является гаплоидным организмом	1) 1
Б) диплоидная стадия	2) 2
В) форма зимовки в водоеме	
Г) образуется в результате слияния гамет	
Д) вызывает цветение воды	
Е) передвигается с помощью жгутиков	

Запишите выбранные цифры под соответствующими буквами.

Ответ:

А	Б	В	Г	Д	Е

Ответы

Задание	Ответ
1	6
2	7

Задание	Ответ
3	122211

KURSTEAM
онлайн-школа

ЭТОТ И ДРУГИЕ ВАРИАНТЫ ЕГЭ ТЫ НАЙДЁШЬ НА KURSTEAM.RU!

Задания по темам и линиям ЕГЭ доступны в разделе «Задания». А ещё у нас есть теория по всей биологии с указанием того, что именно спрашивают и интерактивные тренажёры, которые помогут выучить и закрепить любую тему!

kursteam.ru/zadaniya →

Наведите камеру